27. Γνωρίζω τις παράλληλες και τις τεμνόμενες ευθείες

ΟΝΟΜΑΤΕΠΩΝΥΜΟ: ---------- Δ1 – 22-02-13

1. **Ποιο** μπαλάκι του γκολφ **θα μπει** στην τρύπα;

Πρόβλεψη: . . . . . .

Διαπίστωση:

(με τη βοήθεια του χάρακα):

. . . . . .

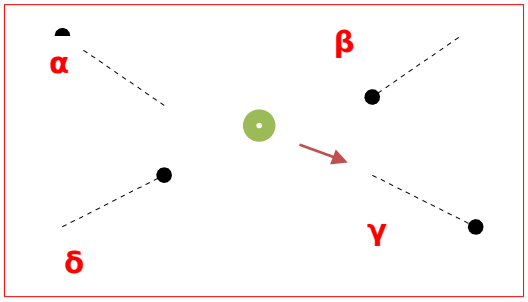

2. α. **Βρίσκω** το **σημείο** στο οποίο **τέμνονται** οι ευθείες κάθε ζεύγους.

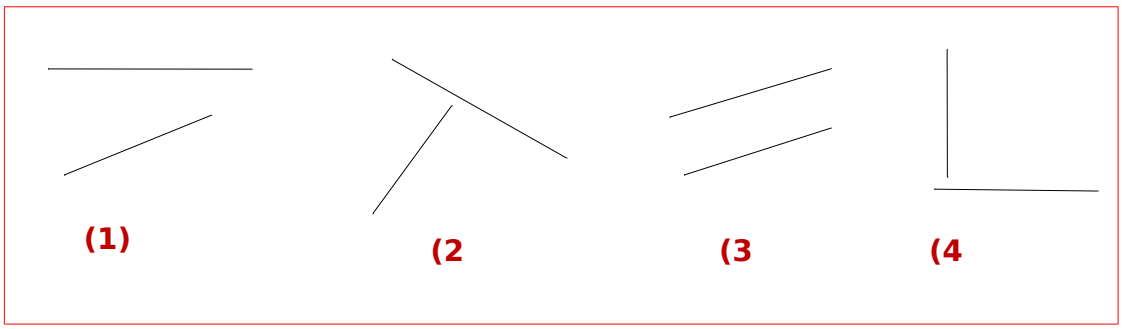

β. **Ποια** ζεύγη τέμνονται **κάθετα**; . . . . . .

- **Πώς** το διαπίστωσα;
  . . . . . .

3. Ο Αλέξης και η Αγάπη ψάχνουν να βρουν **κάθετα** και **παράλληλα** ευθύγραμμα τμήματα στα κεφαλαία γράμματα του ονόματός τους:

Γράμματα με ευθύγραμμα τμήματα	ΑΛΕΞΗΣ	ΑΓΑΠΗ
Παράλληλα		
Κάθετα		
Και παράλληλα και κάθετα		
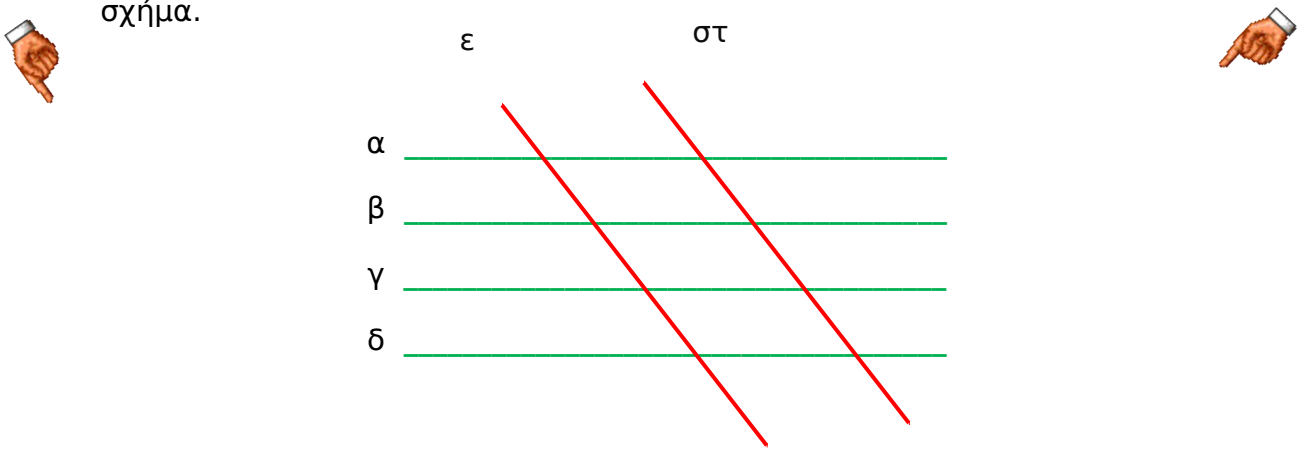
4. **Γράφω** τα **ζευγάρια** των **παράλληλων ευθειών** που βρίσκονται στο παρακάτω σχήμα.